Система оценивания проверочной работы

Правильный ответ на каждое из заданий 1.1, 9, 11, 13.3 оценивается 1 баллом.

Правильный ответ на задания 3 и 8 оценивается 2 баллами. Если в ответе переставлены местами два элемента, выставляется 1 балл, более двух элементов – 0 баллов.

Полный правильный ответ на каждое из заданий 4, 5, 7, 13.2 оценивается 2 баллами. Если в ответе допущена одна ошибка (в том числе написана лишняя цифра, или не написана одна необходимая цифра), выставляется 1 балл; если допущено две или более ошибки – 0 баллов.

Номер задания	**Правильный ответ**
3	51243
4	13
5	524
7	122212
8	24135
9	2
11	2

© 2020 Федеральная служба по надзору в сфере образования и науки

1 Рассмотрите изображения различных объектов живой природы.

1.1. Подпишите их названия, используя слова из предложенного списка: *плауновидные покрытосеменные, папоротники, зелёные водоросли.*

А. _____

Б. _____

В. _____

Г. _____

1.2. Три из изображённых объектов объединены общим признаком. Выпишите название объекта, «выпадающего» из общего ряда. Объясните свой выбор.

Ответ: _____

_____

© 2020 Федеральная служба по надзору в сфере образования и науки

1.1	А – папоротники Б – зелёные водоросли В – покрытосеменные Г – плауновидные

1.2.

Содержание верного ответа и указания к оцениванию	**Баллы**
Правильный ответ должен содержать следующие элементы: 1) объект: покрытосеменные; 2) объяснение, например: не нуждаются при размножении в воде; ИЛИ 1) объект: зеленые водоросли; 2) объяснение, например: это низшие растения; ИЛИ это организмы, в составе тела которых отсутствуют ткани и органы Объяснение может быть дано в иной, близкой по смыслу формулировке, не искажающей его смысла	
Правильно определён объект и дано объяснение	*2*
Правильно определён объект, объяснение отсутствует / дано неправильно.	*1*
Объект определён неправильно / не определён независимо от наличия/отсутствия объяснения. ИЛИ Ответ неправильный	*0*
Максимальный балл	*2*

2 Каково значение гриба-мукора в жизни человека? Назовите одно из них.

Ответ: _____

_____

Содержание верного ответа и указания к оцениванию (допускаются иные формулировки ответа, не искажающие его смысла)	Баллы
Правильный ответ должен содержать указание на значение гриба-мукора в жизни человека, например, гриб-мукор вызывает порчу продуктов питания	
Правильно указано значение	1
Значение не указано / указано неправильно	0
Максимальный балл	*1*

© 2020 Федеральная служба по надзору в сфере образования и науки

6 Приведите по три примера организмов, относящихся к указанным группам. Запишите их названия в таблицу.

Шляпочные грибы	Водоросли

Указания к оцениванию	
Правильный ответ должен содержать по три примера организмов, относящихся к шляпочным грибам и водорослям	
Правильно указано по три примера организмов в каждой группе	2
Правильно приведено два-три примера растений, относящихся к одной группе, и два примера растений, относящихся к другой группе	1
Все иные ситуации, не соответствующие правилам выставления 2 и 1 балла. ИЛИ Ответ неправильный	0
Максимальный балл	*2*

10 С помощью какой женской клетки происходит размножение растения, изображённого на рисунке (см. задание 9)? Почему?

Ответ: _____

Содержание верного ответа и указания к оцениванию (допускаются иные формулировки ответа, не искажающие его смысла)	**Баллы**
Правильный ответ должен содержать следующие элементы: 1) клетка: женская половая клетка – яйцеклетка; 2) объяснение, например: клетка передаёт признаки следующему поколению	
Правильно указаны половые клетки и дано объяснение	2
Правильно указаны только половые клетки	1
Половые клетки не указаны / указаны неправильно	0
Максимальный балл	*2*

© 2020 Федеральная служба по надзору в сфере образования и науки

12 Рассмотрите изображения шести организмов. Предложите основание, согласно которому их можно разделить на две группы по три представителя в каждой.

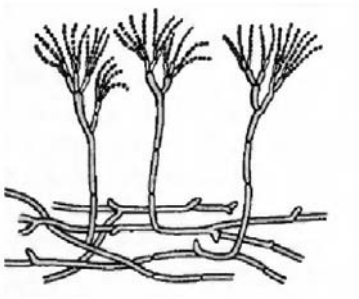

Пеницилл

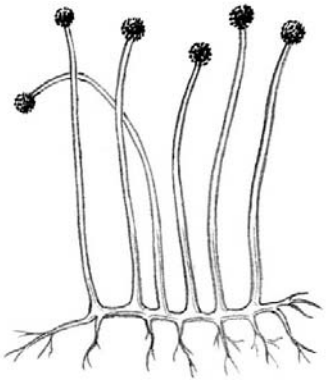

Мукор

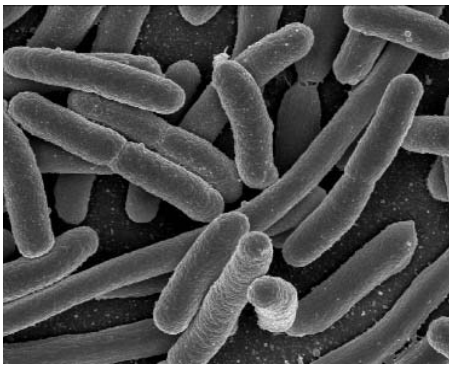

Кишечные палочки

Бактерии вибрионы

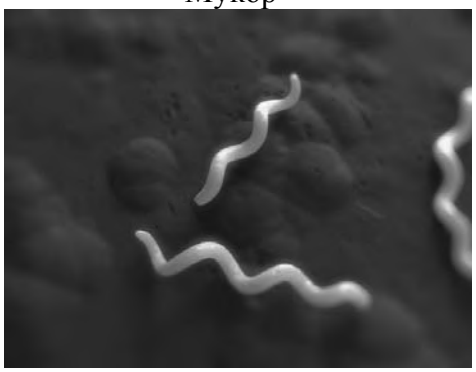

Бактерии спириллы

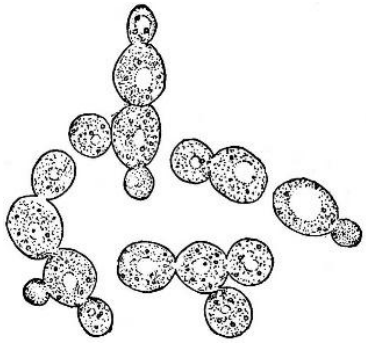

Дрожжи

Заполните таблицу: запишите в неё основание, по которому были разделены организмы, общее название для каждой группы организмов и перечислите организмы, которые вы отнесли к этой группе.

Номер группы	Какое основание позволило разделить организмы?	Как называется данная группа организмов?	Какие организмы относятся к данной группе?
Группа 1			
Группа 2			

© 2020 Федеральная служба по надзору в сфере образования и науки

Содержание верного ответа и указания к оцениванию (допускаются иные формулировки ответа, не искажающие его смысл)	**Баллы**
Правильный ответ должен содержать следующие элементы: Основание – систематическое положение; 1) группа 1 – организмы, относящиеся к бактериям: кишечные палочки, бактерии спириллы, бактерии вибрионы; 2) группа 2 – организмы, относящиеся к грибам: дрожжи, мукор, пеницилл	
Правильно заполнены пять ячеек таблицы	3
Без ошибок заполнены только четыре любые ячейки таблицы	2
Без ошибок заполнены только три любые ячейки таблицы	1
Все иные ситуации, не соответствующие правилам выставления 3, 2 и 1 балла. ИЛИ Ответ неправильный	0
Максимальный балл	3

© 2020 Федеральная служба по надзору в сфере образования и науки

13 13.1. Рассмотрите изображения растений: *филлофора, хламидомонада, пихта сицилийская*. Подпишите их названия под соответствующими изображениями.

Под каждым названием растения укажите среду его обитания: *наземно-воздушная, водная.*



Название			
Среда обитания			

13.2. Рассмотрите схему, отражающую развитие растительного мира Земли.

1 – Зелёные водоросли
2 – Красные водоросли
3 – Бурые водоросли
4 – Мхи
5 – Плауны
6 – Папоротники
7 – Хвощи
8 – Голосеменные
9 – Однодольные
10 – Двудольные

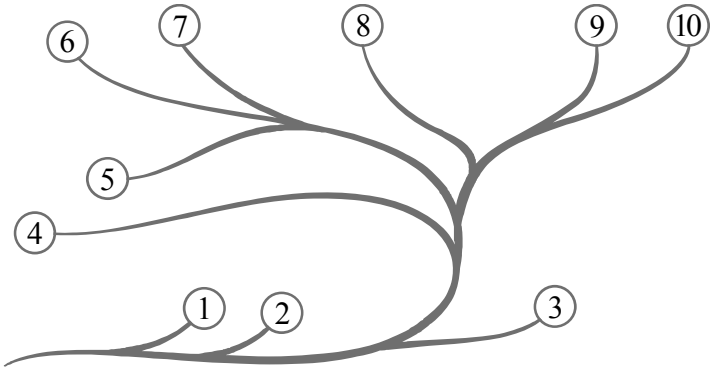

Какими цифрами на схеме обозначены группы организмов, к которым относят изображённые на рисунках растения? Запишите в таблицу номера соответствующих групп.

Хламидомонада	Пихта сицилийская	Филлофора

13.3. Какое из этих растений относят к высшим семенным?

Ответ: _____

© 2020 Федеральная служба по надзору в сфере образования и науки

13.1



Название	Хламидомонада	Филлофора	Пихта сицилийская
Среда обитания	Водная	Водная	Наземно-воздушная

Содержание верного ответа и указания по оцениванию	Баллы
Верно подписаны названия трёх растений и указаны среды их обитания	2
Верно подписаны названия не менее двух растений и указаны среды обитания одного-двух из них. ИЛИ Верно подписаны только названия трёх растений, среды обитания не указаны / указаны неверно	1
Все комбинации элементов, не соответствующие указаниям по выставлению 2 баллов и 1 балла. ИЛИ Ответ неправильный	0
Максимальный балл	*2*

13.2	хламидомонада – 1 пихта сицилийская – 8 филлофора – 2
13.3	пихта сицилийская

Система оценивания выполнения всей работы

Максимальный балл за выполнение работы – **28**.

Рекомендации по переводу первичных баллов в отметки по пятибалльной шкале

Отметка по пятибалльной шкале	«2»	«3»	«4»	«5»
Первичные баллы	0–9	10–16	17–22	23–28

© 2020 Федеральная служба по надзору в сфере образования и науки