Система оценивания проверочной работы

Правильный ответ на каждое из заданий 1.1, 1.2, 1.3, 2.1, 3.1, 3.2, 3.3, 3.4, 5.3, 6, 8.1 оценивается 1 баллом.

Полный правильный ответ на задания 4 и 9 оценивается 2 баллами. Если в ответе допущена одна ошибка (в том числе написана лишняя цифра или не написана одна необходимая цифра), выставляется 1 балл; если допущено две или более ошибки – 0 баллов.

Номер задания	Правильный ответ
4	325
6	1
9	441

1 На представленном ниже рисунке ученик увидел один из процессов жизнедеятельность растений. Рассмотрите рисунок и ответьте на вопросы.



1.1. Как называют данный процесс?

Ответ. _____

1.2. Знание в области какой ботанической науки позволит ученику изучить данный процесс?

Ответ. _____

1.3. Какие структуры покровной ткани листа выводят пары воды на поверхность?

Ответ. _____

1.1	испарение/транспирация
1.2	физиология
1.3	устьица

© 2020 Федеральная служба по надзору в сфере образования и науки

2 В приведённой ниже таблице между позициями первого и второго столбцов имеется взаимосвязь.

Целое	Часть
Образовательная ткань	…
Покровная ткань	Кожица

2.1. Какое понятие следует вписать на место пропуска в этой таблице?

1) камбий
2) сосуды
3) ситовидные трубки
4) древесные волокна

Ответ:

2.2. Какую функцию выполняют устьица у растений?

Ответ. _____

2.1	1

2.2

Содержание верного ответа и указания к оцениванию (допускаются иные формулировки ответа, не искажающие его смысла)	**Баллы**
Правильный ответ должен содержать указание функции, например: газообмен, ИЛИ испарение воды, ИЛИ защита от перегрева растений	
Правильно указана функция	1
Ответ неправильный	0
Максимальный балл	*1*

© 2020 Федеральная служба по надзору в сфере образования и науки

3

3.1. Рассмотрите рисунок растительной клетки (рис. 1). Какая структура клетки обозначена на рисунке буквой А?

Ответ: _____

3.2. Каково значение этой структуры в жизнедеятельности клетки?

Ответ: _____

_____

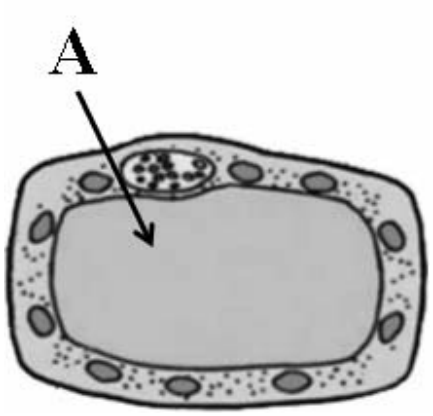

Рис. 1

3.3. Максим рассмотрел под микроскопом срез стебля липы и сделал микрофотографию (рис. 2). Что он обозначил на фотографии цифрой 1?

Ответ: _____

3.4. Какой вид проводящей ткани входит в состав структуры, обозначенной цифрой 1?

Ответ: _____

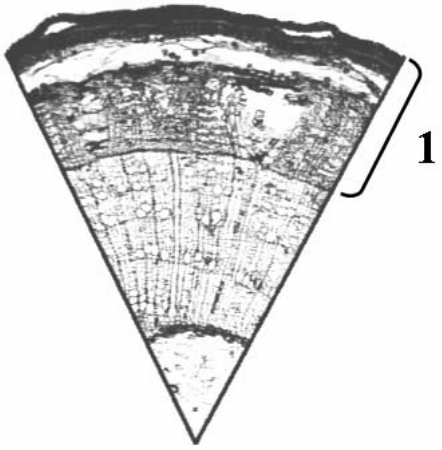

Рис. 2

3.1	вакуоль / вакуоль с клеточным соком
3.3	кора
3.4	луб

3.2

Содержание верного ответа и указания к оцениванию (допускаются иные формулировки ответа, не искажающие его смысла)	**Баллы**
Правильный ответ должен содержать указание функции, например: накопление питательных веществ и конечных продуктов обмена веществ ИЛИ обеспечение внутреннего давления на клеточную оболочку	
Правильно указана функция	1
Ответ неправильный	0
Максимальный балл	*1*

© 2020 Федеральная служба по надзору в сфере образования и науки

5 Рассмотрите изображение луковицы лука и выполните задания.

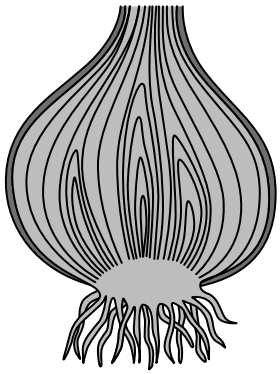

5.1. Покажите стрелками и подпишите на рисунке *стебель, верхушечную почку, корни*.

5.2. Какую функцию в луковице выполняют сочные чешуи (листья)?

Ответ: _____

_____

5.3. Назовите ещё один вид подземного видоизменённого побега.

Ответ: _____

© 2020 Федеральная служба по надзору в сфере образования и науки

5.1

Содержание верного ответа и указания по оцениванию	Баллы
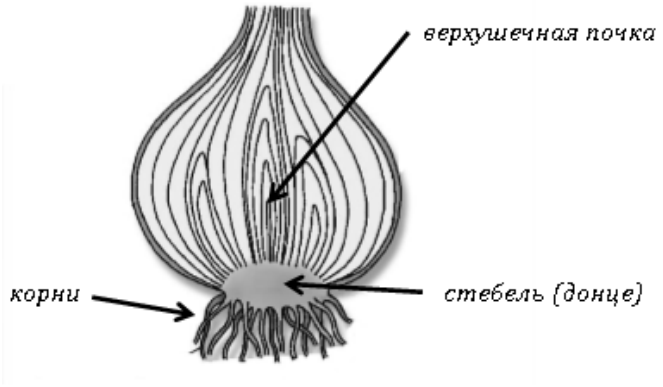	
Верно подписаны три части луковицы	2
Верно подписаны только две части луковицы	1
Верно подписана только одна любая часть луковицы. ИЛИ Ответ неправильный	0
Максимальный балл	*2*

5.2

Содержание верного ответа и указания к оцениванию (допускаются иные формулировки ответа, не искажающие его смысла)	**Баллы**
Правильный ответ должен содержать <u>указание функции</u>: запасают питательные вещества	
Правильно указана функция	1
Ответ неправильный	0
Максимальный балл	*1*

5.3	клубень / корневище

© 2020 Федеральная служба по надзору в сфере образования и науки

7 Используя приведённую ниже таблицу, ответьте на вопросы.

Содержание минеральных веществ в овощных культурах, мг/100 г

Овощная культура	Калий	Кальций	Магний	Фосфор	Железо
Огурец	141	23	14	42	0,9
Редис	255	39	13	44	1,0
Томат	290	14	20	26	1,4
Тыква	170	40	14	25	0,8

Какая овощная культура из перечисленных в таблице содержит калия более 260 мг на 100 г?

Ответ: _____

Какое вещество из перечисленных в таблице содержится в огурце и тыкве в одинаковом количестве?

Ответ: _____

Какие две овощные культуры из перечисленных в таблице следует включить в свой рацион человеку, у которого недостаток кальция в организме?

Ответ: _____

Содержание верного ответа и указания по оцениванию	Баллы
Правильный ответ должен содержать ответы на три вопроса: 1) томат; 2) магний; 3) тыква и редис	
Правильно даны ответы на три вопроса	2
Правильно даны ответы на любые два вопроса	1
Правильно дан ответ только на один любой вопрос. ИЛИ Ответ неправильный	0
Максимальный балл	*2*

© 2020 Федеральная служба по надзору в сфере образования и науки

8 Известно, что растения дышат. Фёдор побег комнатного растения с листьями поставил в стакан с водой. Рядом поставил другой стакан с растворённым сахарным песком. Затем закрыл растение и стакан с сахарным песком стеклянным колпаком и поместил в тёмный шкаф на сутки. На следующий день Фёдор обратил внимание на то, что прозрачность раствора не изменилась.





8.1. Какую задачу ставил Фёдор помещая растение и стакан с растворённым сахарным песком в тёмный шкаф?

Ответ: _____

8.2. Какой вывод можно сделать на основании полученного результата?

Ответ: _____

_____

8.3. Можно ли утверждать, что если во второй стакан налить известковую воду, то раствор помутнеет? Обоснуйте свой ответ.

Ответ: _____

_____

© 2020 Федеральная служба по надзору в сфере образования и науки

8.1	влияет ли углекислый газ, выделяемый растением, при дыхании на раствор с сахарным песком

8.2

Содержание верного ответа и указания к оцениванию (допускаются иные формулировки ответа, не искажающие его смысла)	**Баллы**
Правильный ответ должен содержать вывод, например: раствор сахарного песка не изменился под действием углекислого газа	
Сделан правильный вывод	1
Ответ неправильный	0
Максимальный балл	*1*

8.3

Содержание верного ответа и указания по оцениванию (допускаются иные формулировки ответа, не искажающие его смысла)	**Баллы**
Правильный ответ должен содержать следующие элементы: 1) ответ на вопрос: нет; 2) обоснование: мы не знаем свойств известковой воды. ИЛИ 1) ответ на вопрос: да; 2) обоснование: выделяемый растениями углекислый газ, изменит прозрачность известковой воды. Ответ и обоснование могут быть приведены в иных, близких по смыслу формулировках	
Правильно дан ответ и дано обоснование	2
Правильно дан ответ	1
Ответ не указан / указан неправильно	0
Максимальный балл	*2*

© 2020 Федеральная служба по надзору в сфере образования и науки

10 Растения по-разному относятся к свету, теплу и влаге, и это учитывается цветоводами при разведении различных растений.

10.1. Опишите особенности растений каланхоэ и аспарагуса, которые необходимо учитывать при их разведении в домашних условиях, используя для этого таблицу условных обозначений.

Условные обозначения:

1) Выносливость	выносливое	капризное	3) Требуемый режим полива	сухая земля	увлажнённая земля	постоянно влажная земля	вода в поддоне
2) Требуемая влажность воздуха	не требует опрыскивания	регулярное опрыскивание	4) Отношение к свету	прямые лучи	рассеянный свет	полутень	тень

Характеристики:

1)	2)	3)	4)

1)	2)	3)	4)

Каланхоэ:

1) _____

_____

2) _____

_____

3) _____

_____

4) _____

_____

Аспарагус:

1) _____

_____

2) _____

_____

3) _____

_____

4) _____

_____

10.2. По каким позициям из приведённых в описании эти растения имеют одинаковые характеристики?

Ответ. _____

_____

© 2020 Федеральная служба по надзору в сфере образования и науки

10.1

Содержание верного ответа и указания по оцениванию	Баллы
Правильный ответ должен содержать следующие условия выращивания растений: каланхоэ: 1) выносливое; 2) не требует опрыскивания; 3) сухая земля; 4) прямые солнечные лучи; аспарагус: 1) выносливое; 2) требует регулярного опрыскивания; 3) постоянно влажная земля; 4) прямые солнечные лучи. Условия могут быть приведены в более развёрнутых формулировках	
Правильно указаны по четыре условия для выращивания каждого из растений	2
Правильно указаны два-три условия для выращивания одного растения и два–четыре условия для выращивания другого растения. ИЛИ Правильно указаны четыре условия для выращивания только одного из растений	1
Все комбинации элементов, не соответствующие указаниям по выставлению 2 и 1 балла. ИЛИ Ответ неправильный	0
Максимальный балл	*2*

10.2

Содержание верного ответа и указания по оцениванию	Баллы
Правильный ответ должен содержать указание следующих позиций, по которым растения имеют одинаковые характеристики: 1) каланхоэ и аспарагус – выносливые растения; 2) для выращивания предпочитают прямые солнечные лучи	
Правильно указаны две позиции	2
Правильно указана только одна позиция	1
Ответ неправильный	0
Максимальный балл	*2*

Система оценивания выполнения всей работы

Максимальный балл за выполнение работы – **28.**

Рекомендации по переводу первичных баллов в отметки по пятибалльной шкале

Отметка по пятибалльной шкале	«2»	«3»	«4»	«5»
Первичные баллы	0–11	12–17	18–23	24–28

© 2020 Федеральная служба по надзору в сфере образования и науки